Dessiner un motif en coloriant en compléter de nombres de manière à sont dans une relation multiple-divi automatiquemen

La fiche élève est cré

97	97	97	97	97	97	97	97	97	97	97	97	97	97	97	97	97	97	97
97	2	5	7	3	8	11	15	34	5	29	32	7	3	19	21	13	8	5
97	7	11	17	31	5	7	17	9	19	7	13	41	11	8	10	29	17	13
97	9	13	16	8	17	11	2	7	16	30	60	20	14	26	18	6	15	14
97	11	4	5	13	2	13	5	11	17	15	9	22	19	3	11	7	8	6
97	5	12	7	11	17	7	12	8	6	5	20	4	10	25	18	13	5	17
97	8	6	5	16	27	5	9	10	7	10	14	15	7	13	11	9	6	14
97	5	17	18	9	11	12	14	12	9	40	4	12	17	2	18	4	10	15
97	3	8	19	14	17	19	23	29	31	37	41	43	47	53	59	61	67	71
97	7	11	12	13	15	9	15	16	17	39	18	19	20	21	22	23	24	57
97	8	26	25	23	18	22	20	19	13	16	17	12	17	41	47	29	19	23
97	9	15	8	7	8	7	8	21	7	14	11	45	15	30	8	9	36	12
97	11	5	6	11	6	11	5	3	8	13	16	7	5	12	7	18	7	8
97	12	10	8	10	15	14	8	18	9	27	23	6	20	9	11	2	20	60
97	13	30	7	29	9	10	11	6	13	14	15	17	4	7	13	16	7	9
97	14	15	3	12	7	13	7	2	16	32	6	10	8	3	5	8	24	48
97	97	97	97	97	97	97	97	97	97	97	97	97	97	97	97	97	97	97

rouge certaines cases de la zone de g
. ce que deux cases rouges ayant un s
seur (dans la zone de droite, les cases
t si les nombres sont bien choisis.)
ée dans le deuxième feuille du classeu

97	97	97	97
12	7	2	97
11	15	19	97
7	21	4	97
28	15	9	97
4	13	2	97
16	7	5	97
8	11	2	97
73	79	83	97
25	26	27	97
41	59	61	97
7	8	76	97
22	26	38	97
14	15	19	97
11	9	6	97
10	13		97
97	97	97	97



auche puis la
ommet commun
; se noircissent

r.

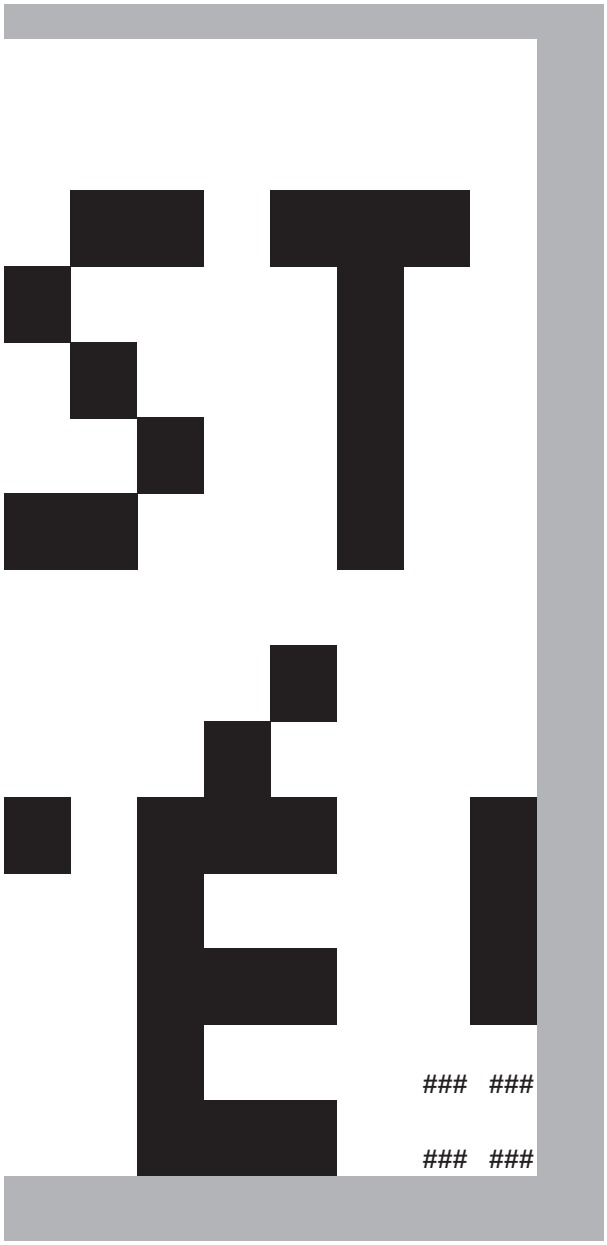

Multiples et diviseurs (1)

Cette grille présente des nombres entiers. Lorsqu'un nombre est multiple d'un autre nombre qui le touche horizontalement, verticalement ou en diagonale, vous devrez marquer les deux cases d'une croix.
Par exemple :

2	8	7
3	31	22
5	11	5

8 est un multiple de 2
ET
22 est un multiple de 11

2	9	7
3	31	22
4	15	8

9 est un multiple de 3
ET
15 est un multiple de 3
(un même nombre peut être utilisé plusieurs fois)

Lorsque c'est fini, coloriez en noir toutes les cases marquées d'une croix !

2	5	7	3	8	11	15	34	5	29	32	7	3	19	21	13	8	5	12	7	2
7	11	17	31	5	7	17	9	19	7	13	41	11	8	10	29	17	13	11	15	19
9	13	16	8	17	11	2	7	16	30	60	20	14	26	18	6	15	14	7	21	4
11	4	5	13	2	13	5	11	17	15	9	22	19	3	11	7	8	6	28	15	9
5	12	7	11	17	7	12	8	6	5	20	4	10	25	18	13	5	17	4	13	2
8	6	5	16	27	5	9	10	7	10	14	15	7	13	11	9	6	14	16	7	5
5	17	18	9	11	12	14	12	9	40	4	12	17	2	18	4	10	15	8	11	2
3	8	19	14	17	19	23	29	31	37	41	43	47	53	59	61	67	71	73	79	83
7	11	12	13	15	9	15	16	17	39	18	19	20	21	22	23	24	57	25	26	27
8	26	25	23	18	22	20	19	13	16	17	12	17	41	47	29	19	23	41	59	61
9	15	8	7	8	7	8	21	7	14	11	45	15	30	8	9	36	12	7	8	76
11	5	6	11	6	11	5	3	8	13	16	7	5	12	7	18	7	8	22	26	38
12	10	8	10	15	14	8	18	9	27	23	6	20	9	11	2	20	60	14	15	19
13	30	7	29	9	10	11	6	13	14	15	17	4	7	13	16	7	9	11	9	6
14	15	3	12	7	13	7	2	16	32	6	10	8	3	5	8	24	48	10	13	

Dessiner un motif en coloriant en compléter de nombres de manière à sont dans une relation multiple-divi automatiquemen

La fiche élève est cré

97	97	97	97	97	97	97	97	97	97	97	97	97	97	97	97	97	97	97
97	5	17	6	2	11	15	34	5	29	12	28	24	19	21	13	2	29	32
97	13	18	15	19	7	17	9	2	7	3	61	11	18	7	29	12	7	13
97	14	19	36	8	11	17	6	16	31	6	50	14	26	14	5	32	31	38
97	5	22	14	9	13	18	11	12	28	30	20	19	31	28	9	8	29	9
97	17	3	45	8	17	9	8	6	19	32	8	24	25	4	16	2	5	17
97	8	13	19	20	21	5	11	10	7	13	14	15	7	13	11	9	11	13
97	5	17	23	9	11	12	28	4	9	40	17	12	4	10	25	6	10	15
97	3	8	19	14	21	7	23	29	32	37	24	43	47	16	8	61	67	71
97	7	11	12	9	63	8	15	25	17	8	18	19	20	21	2	16	25	56
97	8	26	25	81	13	22	20	19	13	16	17	12	17	41	47	6	19	23
97	9	15	8	7	9	7	8	22	7	9	11	45	16	29	3	4	37	12
97	11	13	6	11	6	99	5	13	8	13	16	7	22	57	7	17	7	8
97	12	10	8	10	15	14	11	33	12	27	23	76	19	9	11	5	29	60
97	13	18	7	29	9	10	15	8	99	14	63	17	22	7	13	16	7	9
97	14	15	27	12	7	13	7	10	25	9	6	10	8	3	5	44	24	64
97	97	97	97	97	97	97	97	97	97	97	97	97	97	97	97	97	97	97

rouge certaines cases de la zone de g
. ce que deux cases rouges ayant un s
seur (dans la zone de droite, les cases
t si les nombres sont bien choisis.)
ée dans le deuxième feuille du classeu

97	97	97	97
8	24	76	97
3	11	20	97
6	14	19	97
30	21	6	97
10	39	15	97
16	26	21	97
12	11	6	97
73	79	83	97
25	26	27	97
41	59	61	97
7	8	76	97
22	26	20	97
14	15	19	97
11	9	6	97
10	13	15	97
97	97	97	97

auche puis la
ommet commun
; se noircissent

r.



Multiples et diviseurs (2)

Cette grille présente des nombres entiers. Lorsqu'un nombre est multiple d'un autre nombre qui le touche horizontalement, verticalement ou en diagonale, vous devrez marquer les deux cases d'une croix.
Par exemple :

2	8	7
3	31	22
5	11	5

8 est un multiple de 2
ET
22 est un multiple de 11

2	9	7
3	31	22
4	15	8

9 est un multiple de 3
ET
15 est un multiple de 3
(un même nombre peut être utilisé plusieurs fois)

Lorsque c'est fini, coloriez en noir toutes les cases marquées d'une croix !

5	17	6	2	11	15	34	5	29	12	28	24	19	21	13	2	29	32	8	24	76
13	18	15	19	7	17	9	2	7	3	61	11	18	7	29	12	7	13	3	11	20
14	19	36	8	11	17	6	16	31	6	50	14	26	14	5	32	31	38	6	14	19
5	22	14	9	13	18	11	12	28	30	20	19	31	28	9	8	29	9	30	21	6
17	3	45	8	17	9	8	6	19	32	8	24	25	4	16	2	5	17	10	39	15
8	13	19	20	21	5	11	10	7	13	14	15	7	13	11	9	11	13	16	26	21
5	17	23	9	11	12	28	4	9	40	17	12	4	10	25	6	10	15	12	11	6
3	8	19	14	21	7	23	29	32	37	24	43	47	16	8	61	67	71	73	79	83
7	11	12	9	63	8	15	25	17	8	18	19	20	21	2	16	25	56	25	26	27
8	26	25	81	13	22	20	19	13	16	17	12	17	41	47	6	19	23	41	59	61
9	15	8	7	9	7	8	22	7	9	11	45	16	29	3	4	37	12	7	8	76
11	13	6	11	6	99	5	13	8	13	16	7	22	57	7	17	7	8	22	26	20
12	10	8	10	15	14	11	33	12	27	23	76	19	9	11	5	29	60	14	15	19
13	18	7	29	9	10	15	8	99	14	63	17	22	7	13	16	7	9	11	9	6
14	15	27	12	7	13	7	10	25	9	6	10	8	3	5	44	24	64	10	13	15